MAISON DE L'EAU
ET DE LA MÉDITERRANÉE

Questionnaire école élémentaire - cycle 2

Séquence 1 : La saga de l'eau

Vrai / Faux

Une toute petite partie de la terre est recouverte d'eau.

☐ Vrai ☐ Faux

La glace est de l'eau.

☐ Vrai ☐ Faux

Les dinosaures buvaient la même eau que nous.

☐ Vrai ☐ Faux

L'eau qui sort des stations d'épuration est potable.

☐ Vrai ☐ Faux

Questions à choix multiples (QCM)

Pourquoi la Terre est appelée planète bleue ?

☐ Car le ciel est bleu
☐ Car elle ressemble à un Schtroumf
☐ Car les océans, mers, fleuves, lacs recouvrent 70% de sa surface

L'eau effectue toujours le même cycle naturel. Comment appelle-t-on l'autre cycle ?

☐ Domestique
☐ Dromadaire
☐ Démoustique

Complète le schéma suivant illustrant le cycle naturel de l'eau avec les numéros des mots suivants :

1 Évaporation – 2 Précipitation – 3 Ruissellement – 4 Infiltration

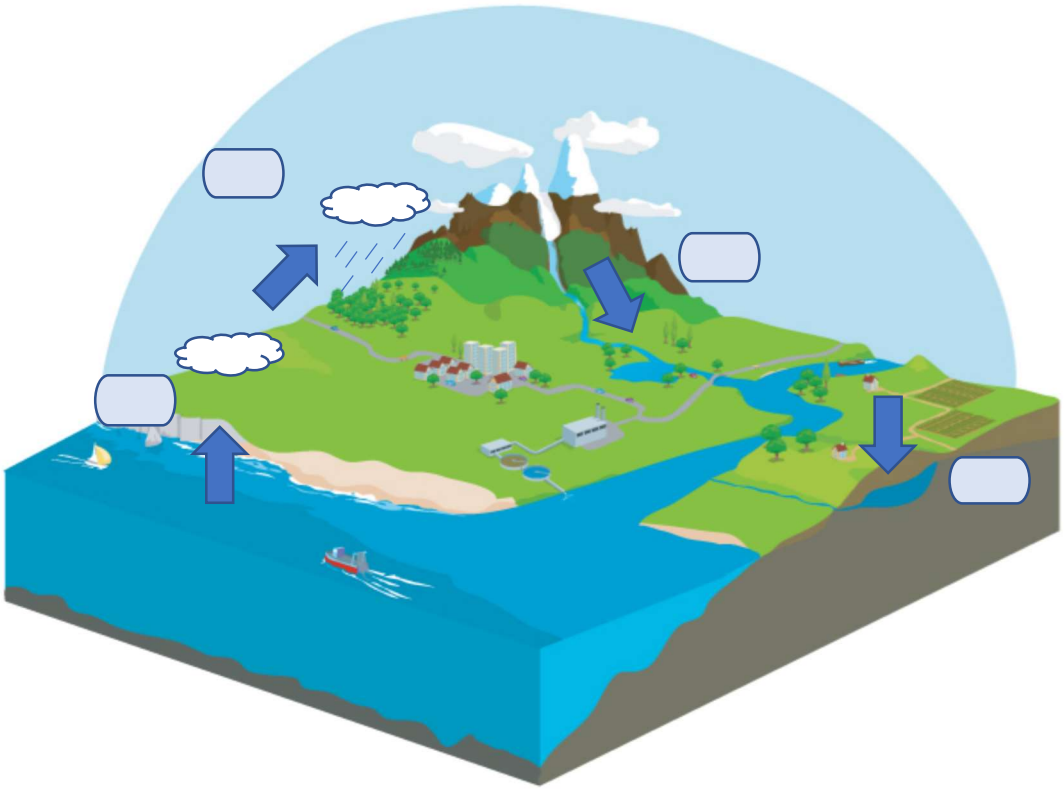

Remets dans l'ordre les étapes du cycle domestique.

n° ..... **Assainissement** :

Par les égouts, les eaux usées rejoignent une station d'épuration pour être débarrassées de leurs impuretés.

n° ..... **Traitement** :

L'eau puisée dans la nature passe par une usine de traitement afin de la rendre consommable.

n° ..... **Restitution** :

Après sa dépollution, l'eau est rejetée dans la nature et rejoint le grand cycle de l'eau.

n° ..... **Prélèvement** :

L'eau est captée dans les cours d'eau.

n° ..... **Utilisation** :

L'eau arrive au robinet et est utilisée par le consommateur, les agriculteurs et les industriels.

Séquence 2 : Sublime Méditerranée

- **Cite un fleuve qui se jette dans la Méditerranée**

  .....

- **De quel peuple méditerranéen fait partie la reine Cléopâtre ?**

  .....

Points à relier :

Toutes ces espèces sont protégées car elles sont menacées. Pour quelles raisons ?

Desman des Pyrénées

Phoque moine

Surpêche

Pollution

Dégradation de l'habitat

Constructions humaines (tourisme-urbanisation)

Chasse



Dauphin commun

Écrevisse à pattes blanches

Questions à choix multiples (QCM)

Qu'est-ce qu'un bassin versant ?

- ☐ Ensemble des terrains où toute l'eau tombée rejoint le même cours d'eau.
- ☐ Un bassin où l'on jette ses déchets.
- ☐ Un bassin où l'on récupère l'eau de pluie

Il se jette toujours dans la mer ou dans l'océan.

- ☐ Le ruisseau.
- ☐ Le fleuve.
- ☐ Le torrent.

Je coule au Boulou pas très loin de la Maison de l'Eau et de la Méditerranée.

- ☐ Le Rhône.
- ☐ La Massane.
- ☐ Le Tech.

- Quel est le nom de la catastrophe naturelle qui s'est produite en 1940 ?

.....

- Quel poisson peut-on pêcher dans le Tech ?

.....

- En cas de catastrophe naturelle, quel est le média utilisable pour avoir les informations sans réseau téléphonique et électrique ?

  .....

Questions à choix multiples (QCM)

Il est recommandé de :

☐ installer des économiseurs d'eau
☐ ne jamais vérifier les fuites
☐ jeter des déchets de cuisine dans les toilettes

Pour économiser l'eau, je peux :

☐ me brosser les dents moins souvent
☐ fermer le robinet pendant que je me brosse les dents
☐ me faire poser un dentier

Il est préférable de :

☐ prendre une douche
☐ prendre un bain
☐ ne jamais se laver

Les châteaux d'eau sont reliés par des canalisations aux :

☐ stations d'épuration
☐ habitations
☐ usines de production d'eau potable



MAISON DE L'EAU
ET DE LA MÉDITERRANÉE

Questionnaire école élémentaire - cycle 3

Séquence 1 : La saga de l'eau

- De combien de % le cerveau et la méduse sont composés d'eau ?

  Cerveau : ..... % Méduse : ..... %

- La plus grande quantité d'eau sur Terre est-elle douce ou salée ? .....

- Quels sont les 3 états de l'eau ?

  ....

Remets dans l'ordre les étapes du cycle domestique.

n° ..... **Assainissement** :

Par les égouts, les eaux usées rejoignent une station d'épuration pour être débarrassées de leurs impuretés.

n° ..... **Traitement** :

L'eau puisée dans la nature passe par une usine de traitement afin de la rendre consommable.

n° ..... **Restitution** :

Après sa dépollution, l'eau est rejetée dans la nature et rejoint le grand cycle de l'eau.

n° ..... **Prélèvement** :

L'eau est captée dans les cours d'eau.

n° ..... **Utilisation** :

L'eau arrive au robinet et est utilisée par le consommateur, les agriculteurs et les industriels.

Vrai / Faux

L'eau est composé d'hydrogène et carbone.

☐ Vrai ☐ Faux

Une toute petite partie de la terre est recouverte d'eau.

☐ Vrai ☐ Faux

Les dinosaures buvaient la même eau que nous.

☐ Vrai ☐ Faux

L'eau qui sort des stations d'épuration est potable.

☐ Vrai ☐ Faux

Questions à choix multiples (QCM)

L'évapotranspiration c'est :

- ☐ quand quelqu'un transpire beaucoup
- ☐ quand les plantes transpirent
- ☐ quand l'eau des océans s'évaporent

Complète le schéma suivant illustrant le cycle naturel de l'eau avec les numéros des mots suivants :

1 Évaporation – 2 Précipitation – 3 Ruissellement – 4 Infiltration

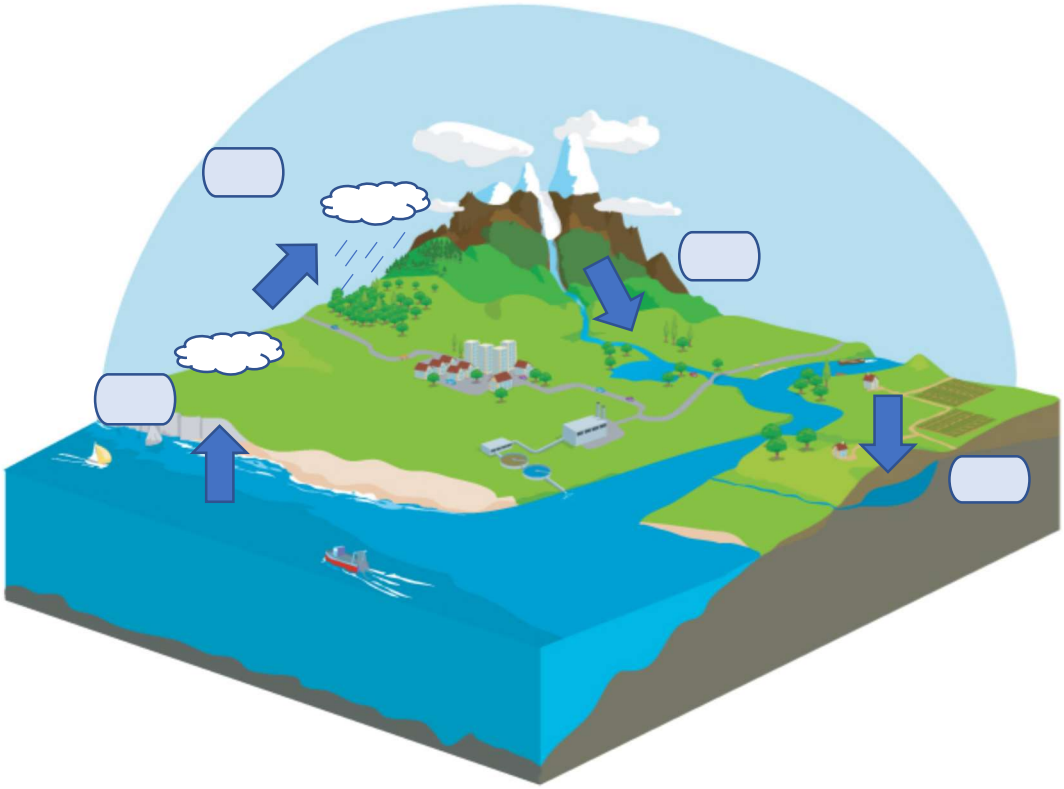

Séquence 2 : Sublime Méditerranée

Question à choix multiples (QCM)

Comment un navire très chargé, peut-il toutefois se maintenir à la surface de l'eau sans couler ?

- ☐ Grâce à la poussée de Poséidon
- ☐ Grâce à la poussée d'Archimède
- ☐ Grâce à la poussée d'Athéna

- De quel peuple méditerranéen fait partie la reine Cléopâtre ?

  .....

- Cite un fleuve qui se jette dans la Méditerranée

  .....

Points à relier :

Toutes ces espèces sont protégées car elles sont menacées. Pour quelles raisons ?

Desman des Pyrénées

Dauphin commun

Surpêche

Pollution

Dégradation de l'habitat

Constructions humaines (tourisme-urbanisation)

Chasse

Phoque moine

Écrevisse à pattes blanches

Questions à choix multiples (QCM)

- Qu'est-ce qu'un bassin versant ?

☐ Ensemble des terrains où toute l'eau tombée rejoint le même cours d'eau.
☐ Un bassin où l'on jette ses déchets.
☐ Un bassin où l'on récupère l'eau de pluie

- Il se jette toujours dans la mer ou dans l'océan.

☐ Le ruisseau
☐ Le fleuve.
☐ Le torrent

- Je coule au Boulou pas très loin de la Maison de l'Eau et de la Méditerranée.

☐ Le Rhône
☐ La Massane
☐ Le Tech

- Quel est le nom de la catastrophe naturelle qui s'est produite en 1940 ?

.....

- Quel poisson peut-on pêcher dans le Tech ?

.....

- Citer un arbre, une plante aquatique et une espèce animale typique des bords du Tech.

.....

.....

.....

Questions à choix multiples (QCM)

Il est recommandé de :

- ☐ installer des économiseurs d'eau
- ☐ ne jamais vérifier les fuites
- ☐ jeter des déchets de cuisine dans les toilettes

Pour économiser l'eau, je peux :

- ☐ me brosser les dents moins souvent
- ☐ fermer le robinet pendant que je me brosse les dents
- ☐ me faire poser un dentier

Il est préférable de :

- ☐ prendre une douche
- ☐ prendre un bain
- ☐ ne jamais se laver

Les châteaux d'eau sont reliés par des canalisations aux :

- ☐ stations d'épuration
- ☐ habitations
- ☐ usines de production d'eau potable

- **En cas de catastrophe naturelle, quel est le média utilisable pour avoir les informations sans réseau téléphonique et électrique ?**

.....